MATURA / POZIOM PODSTAWOWY

Matematyka

Arkusz treningowy — grupa B

5 maja 2026 r. / Termin główny

Arkusz treningowy opracowany na podstawie matury CKE z matematyki na poziomie podstawowym z 5 maja 2026 r.

Imię i nazwisko: .....
Kod ucznia: .....

Czas pracy: 180 minut **Maksymalna liczba punktów: 50**

EKONOMIK

Matematyka z Ekonomikiem

Marek Kowalski

Instrukcja dla zdającego

Arkusz zawiera 33 zadań głównych. Zadania z podpunktami rozwiązuj w całości. Odpowiedzi zamknięte zaznacz na karcie. W otwartych przedstaw obliczenia lub uzasadnienie przy treści zadania. Możesz korzystać z cyrkla, linijki, kalkulatora prostego i tablic wzorów.

Podstawa ćwiczeń autorskich: Centralna Komisja Egzaminacyjna (CKE), matura, matematyka, poziom podstawowy, Formuła 2023, 5.05.2026.
Arkusz MMAP-P0-100-2605, zad. 1–33, s. 4–33. Arkusz źródłowy: cke.gov.pl (link).

Jak zapisywać odpowiedzi?

W zadaniu wyboru zaznacz jedną literę. Przy zdaniach P/F zaznacz osobną odpowiedź dla każdego stwierdzenia. W zadaniu wymagającym uzupełnienia wpisz liczbę lub przedział. W otwartych pokaż obliczenia.

Powodzenia!

Podstawa ćwiczeń autorskich: Centralna Komisja Egzaminacyjna (CKE), matura, matematyka, poziom podstawowy, Formuła 2023, 5.05.2026.
Arkusz MMAP-P0-100-2605, zad. 1–33, s. 4–33. Arkusz źródłowy: cke.gov.pl (link).

Dodatkowe miejsce na obliczenia

Zadanie 1. (0–1)

Dokończ zdanie. Wybierz właściwą odpowiedź spośród podanych.

Liczba $\sqrt{\frac{81}{8}} \cdot \sqrt{2} + 2^{-1}$ jest równa

A. 6 **B.** 4

C. 7 **D.** 5

Zadanie 2. (0–1)

Klient wpłacił do banku 14000 zł na lokatę dwuletnią. Po każdym rocznym okresie oszczędzania bank dolicza odsetki w wysokości 8% od kwoty bieżącego kapitału znajdującego się na lokacie – zgodnie z procentem składanym.

Dokończ zdanie. Wybierz właściwą odpowiedź spośród podanych.

Po dwóch latach oszczędzania łączna wartość doliczonych odsetek na tej lokacie (bez uwzględniania podatków) jest równa

A. $\frac{11648}{5}$ **B.** $\frac{11653}{5}$

C. $\frac{11643}{5}$ **D.** $\frac{11658}{5}$

Zadanie 3. (0–1)

Dokończ zdanie. Wybierz właściwą odpowiedź spośród podanych.

Liczba $\sqrt{7\sqrt{7}}$ jest równa

A. $7^{\frac{1}{4}}$ **B.** $7^{\frac{1}{2}}$

C. $7^{\frac{3}{4}}$ **D.** 7

Zadanie 4. (0–1)

Dokończ zdanie. Wybierz właściwą odpowiedź spośród podanych.

Liczba $\log_{16} 8 - \log_{16} 128$ jest równa

A. 0 **B.** -2

C. -1 **D.** 1

Zadanie 5. (0–1)

Oceń prawdziwość poniższych stwierdzeń. Wybierz P, jeśli stwierdzenie jest prawdziwe, albo F – jeśli jest fałszywe.

Liczba naturalna $4^{14} \cdot 5^{28}$ jest podzielna przez 20.	P	F
Liczba naturalna $4^{14} \cdot 5^{28}$ jest w zapisie dziesiętnym liczbą 27-cyfrową.	P	F

Zadanie 6. (0–1)

Dokończ zdanie. Wybierz właściwą odpowiedź spośród podanych.

Wartość wyrażenia $x^2 + 14x + 49$ dla $x = \sqrt{6} - 7$ jest równa

A. 6 **B.** 7

C. 5 **D.** 8

Zadanie 7. (0–2)

Wykaż, że dla każdej liczby całkowitej n liczba $9n^2 + 63n$ jest podzielna przez 18.

Zadanie 8. (0–1)

Dane jest równanie $3(x+5)(x-m)(2x+8)=0$, gdzie x jest niewiadomą, natomiast m jest pewną liczbą rzeczywistą. Suma wszystkich rozwiązań tego równania jest równa 0.

Dokończ zdanie. Wybierz właściwą odpowiedź spośród podanych.

Liczba m jest równa

A. 10 **B.** 8

C. 9 **D.** 11

Zadanie 9. (0–1)

Dokończ zdanie. Wybierz właściwą odpowiedź spośród podanych.

Rozwiązaniem równania $\frac{x+4}{5x-1}=\frac{4}{7}$ jest liczba

A. $\frac{45}{13}$ **B.** $\frac{19}{13}$

C. $\frac{58}{13}$ **D.** $\frac{32}{13}$

Zadanie 10. (0–2)

Rozwiąż nierówność $3x^2 + 4x \geq 10x + 24$. Zapisz obliczenia.

Zadanie 11. (0–2)

Na przedstawienie w pewnym teatrze sprzedawano bilety według poniższego cennika.

Rodzaj biletu	Cena w złotych
Normalny	45
Ulgowy	31

Na to przedstawienie sprzedano łącznie 240 biletów. Po opłaceniu kosztów związanych z organizacją przedstawienia w wysokości 25% wpływów ze sprzedaży biletów organizatorom pozostało 7113 zł.

Oblicz liczbę biletów ulgowych sprzedanych na to przedstawienie. Zapisz obliczenia.

Dodatkowe miejsce na obliczenia

Zadanie 12.

Funkcja f jest określona następująco:

$$f(x)=\begin{cases} x+4 & \text{dla } x\in[-4,2],\\ -x+7 & \text{dla } x\in(2,5). \end{cases}$$

Wykres funkcji $y=f(x)$ przedstawiono w kartezjańskim układzie współrzędnych (x,y) na rysunku poniżej.

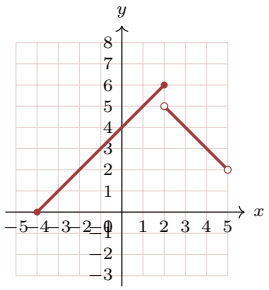

Zadanie 12.1. (0–2)

Uzupełnij zdania. Wpisz odpowiednie liczby w wykropkowanych miejscach.

1. Rozwiązaniem równania $f(x)=5$ jest liczba ..... .
2. Największa wartość funkcji f w przedziale $[2,3]$ jest równa ..... .

Zadanie 12.2. (0–2)

Uzupełnij zdania. Wpisz odpowiednie przedziały w wykropkowanych miejscach.

1. Zbiorem wartości funkcji f jest przedział ..... .
2. Zbiorem wszystkich argumentów, dla których funkcja f przyjmuje wartości większe od 3, jest przedział ..... .

Dodatkowe miejsce na obliczenia

Zadanie 13.

Funkcja liniowa f jest określona wzorem $f(x) = ax + b$, gdzie a i b są pewnymi liczbami rzeczywistymi. W kartezjańskim układzie współrzędnych (x, y) przedstawiono fragment wykresu funkcji f. Każdy z punktów przecięcia wykresu f z osiami układu współrzędnych ma obie współrzędne całkowite. Wykres funkcji f jest nachylony do osi Ox pod kątem o mierze α (zobacz rysunek).

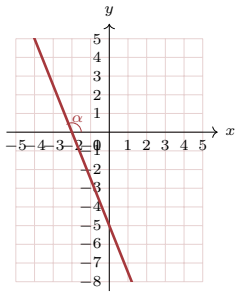

Zadanie 13.1. (0–1)

Oceń prawdziwość poniższych stwierdzeń. Wybierz P, jeśli stwierdzenie jest prawdziwe, albo F – jeśli jest fałszywe.

Współczynnik a we wzorze funkcji f jest liczbą dodatnią.	P	F
Współczynnik b we wzorze funkcji f jest liczbą dodatnią.	P	F

Zadanie 13.2. (0–1)

Dokończ zdanie. Wybierz właściwą odpowiedź spośród podanych.

Tangens kąta o mierze α jest równy

A. $-\frac{5}{2}$ **B.** $\frac{5}{2}$

C. $-\frac{2}{5}$ **D.** $\frac{2}{5}$

Dodatkowe miejsce na obliczenia

Zadanie 14. (0–4)

W kartezjańskim układzie współrzędnych (x, y) wykresem funkcji kwadratowej f jest parabola o wierzchołku w punkcie $W = (5, -4)$. Funkcja kwadratowa g jest określona za pomocą funkcji f wzorem $g(x) = f(x + 3)$. Jednym z miejsc zerowych funkcji g jest liczba 0.

Wyznacz wzór funkcji f w postaci ogólnej. Zapisz obliczenia.

Dodatkowe miejsce na obliczenia

Zadanie 15. (0–3)

Ciąg (a_n) jest określony wzorem $a_n = 4n + 4$ dla każdej liczby naturalnej $n \geq 1$. Trzywyrazowy ciąg (a_1, a_7, a_k) jest geometryczny.

Oblicz k. Zapisz obliczenia.

Zadanie 16. (0–1)

Ciąg arytmetyczny (a_n) jest określony dla każdej liczby naturalnej $n \geq 1$. W tym ciągu $a_1 = 3$ oraz $a_5 = 27$.

Dokończ zdanie. Wybierz właściwą odpowiedź spośród podanych.

Dziewiąty wyraz ciągu (a_n) jest równy

A. 52 **B.** 50

C. 51 **D.** 53

Zadanie 17. (0–1)

Ciąg geometryczny (a_n) jest określony dla każdej liczby naturalnej $n \geq 1$. Wyrazy trzeci i szósty tego ciągu spełniają warunek $a_3 \cdot a_6 = 30$.

Uzupełnij zdanie. Wpisz odpowiednią liczbę w wykropkowanym miejscu.

Iloczyn $a_2 \cdot a_7$ jest równy ..... .

Zadanie 18. (0–1)

Dany jest trójkąt prostokątny ABC, w którym bok AC jest przeciwprostokątną oraz $|BC| = 4$ i $|AC| = 4\sqrt{26}$. Oznaczmy kąt BCA przez γ (zobacz rysunek).

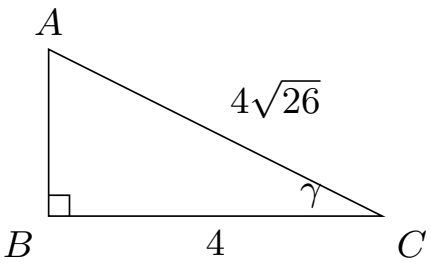

Dokończ zdanie. Wybierz właściwą odpowiedź spośród podanych.

Sinus kąta γ jest równy

A. $\frac{1}{\sqrt{26}}$ **B.** $\frac{1}{5}$

C. $\frac{5}{\sqrt{26}}$ **D.** 5

Zadanie 19. (0–1)

Punkty A, B, C oraz D leżą na okręgu o środku w punkcie O. Punkt B leży na krótszym łuku AC. Kąt CDA ma miarę 54°, a kąt COB ma miarę 32° (zobacz rysunek).

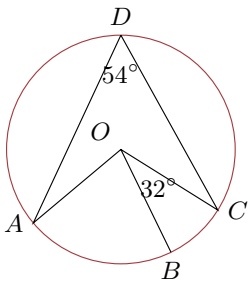

Dokończ zdanie. Wybierz właściwą odpowiedź spośród podanych.

Miara kąta ostrego BOA jest równa

A. 66° **B.** 86°

C. 76° **D.** 96°

Zadanie 20. (0–1)

Na płaszczyźnie dane są cztery proste: k, l, m oraz n. Proste k oraz l są równoległe. Prosta m przecina proste k oraz l w punktach – odpowiednio – A oraz C. Prosta n przecina proste k oraz l w punktach – odpowiednio – D oraz B. Odcinki AC i BD przecinają się w punkcie O. Ponadto $|OA| = 18$, $|OB| = 8$ oraz $|OC| = 12$ (zobacz rysunek).

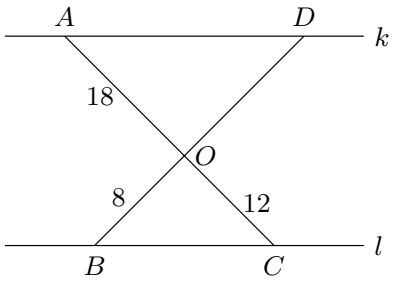

Dokończ zdanie. Wybierz właściwą odpowiedź spośród podanych.

Odcinek OD ma długość

A. 13 **B.** 11

C. 12 **D.** 14

Zadanie 21. (0–2)

Dany jest trójkąt KLM, w którym $|KM| = 3a$ oraz $|LM| = b$. Dwusieczna kąta LMK przecina bok KL w punkcie N (zobacz rysunek).

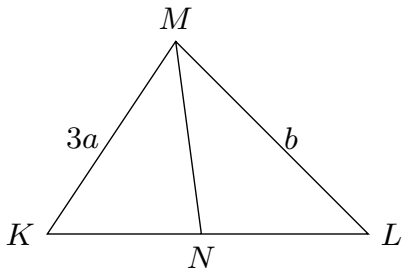

Wykaż, że stosunek pola trójkąta KNM do pola trójkąta NLM jest równy $\frac{3a}{b}$.

Zadanie 22. (0–1)

W okrąg $\mathcal{O}$ o promieniu $13\sqrt{3}$ wpisano trójkąt równoboczny $\mathcal{T}$.

Uzupełnij zdanie. Wpisz odpowiednią liczbę w wykropkowanym miejscu.

Bok trójkąta $\mathcal{T}$ ma długość ..... .

Zadanie 23. (0–1)

Kąt α jest ostry i spełnia warunek $\frac{5\sin\alpha+6\cos\alpha}{6\cos\alpha}=8$.

Dokończ zdanie. Wybierz właściwą odpowiedź spośród podanych.

Tangens kąta α jest równy

A. $\frac{47}{5}$ **B.** $\frac{42}{5}$

C. $\frac{37}{5}$ **D.** $\frac{52}{5}$

Zadanie 24.

W kartezjańskim układzie współrzędnych (x, y) punkty $A = (0, -9)$, $B = (6, 3)$ oraz $C = (0, 6)$ są wierzchołkami trójkąta prostokątnego.

Zadanie 24.1. (0–1)

Dokończ zdanie. Wybierz właściwą odpowiedź spośród podanych.

Pole trójkąta ABC jest równe

A. 44 **B.** 45

C. 46 **D.** 90

Zadanie 24.2. (0–1)

Dokończ zdanie. Wybierz właściwą odpowiedź spośród podanych.

Środek okręgu opisanego na trójkącie ABC ma współrzędne

A. $(0, -\frac{3}{2})$ **B.** $(3, 0)$

C. $(0, 3)$ **D.** $(3, 3)$

Zadanie 25. (0–1)

W kartezjańskim układzie współrzędnych (x, y) dany jest okrąg $\mathcal{O}$ o środku w punkcie $S = (3, -5)$ i o promieniu 15.**Oceń prawdziwość poniższych stwierdzeń. Wybierz P, jeśli stwierdzenie jest prawdziwe, albo F – jeśli jest fałszywe.**

Punkt $A = (12, -17)$ leży na okręgu $\mathcal{O}$.	P	F
Okrąg $\mathcal{O}$ jest określony równaniem $(x-3)^2 + (y+5)^2 = 15$.	P	F

Zadanie 26. (0–1)

W kartezjańskim układzie współrzędnych (x, y) dana jest prosta k o równaniu $y = -\frac{1}{5}x + 2$. Prosta l jest równoległa do prostej k i przechodzi przez punkt $(4, -4)$.

Dokończ zdanie. Wybierz właściwą odpowiedź spośród podanych.

Prosta l przecina oś Oy w punkcie

A. $(0, -\frac{11}{5})$ **B.** $(0, -\frac{21}{5})$

C. $(0, -\frac{6}{5})$ **D.** $(0, -\frac{16}{5})$

Zadanie 27. (0–2)

Dany jest ostrosłup prawidłowy czworokątny, w którym przekątna podstawy ma długość $12\sqrt{3}$. Krawędź boczna tego ostrosłupa jest nachylona do płaszczyzny podstawy pod kątem 30°.

Oblicz objętość tego ostrosłupa. Zapisz obliczenia.

Zadanie 28. (0–1)

Stożek i walec mają równe wysokości. Promień podstawy stożka jest 4 razy większy od promienia podstawy walca.

Dokończ zdanie. Wybierz właściwą odpowiedź spośród podanych.

Stosunek objętości stożka do objętości walca jest równy

A. $\frac{19}{3}$ **B.** $\frac{13}{3}$

C. $\frac{16}{3}$ **D.** $\frac{22}{3}$

Zadanie 29. (0–1)

Dokończ zdanie. Wybierz właściwą odpowiedź spośród podanych.

Wszystkich liczb naturalnych trzycyfrowych nieparzystych, w których zapisie dziesiętnym występują tylko cyfry 0, 1, 2, 3, 4, 5, 6, 7, 8 (cyfry mogą się powtarzać), jest

A. 288 **B.** 296

C. 292 **D.** 300

Zadanie 30. (0–2)

Dane są dwa zbiory cyfr: $X = \{1, 5, 7, 9\}$ oraz $Y = \{0, 2, 4, 8\}$. Losujemy jedną cyfrę ze zbioru X, a następnie losujemy jedną cyfrę ze zbioru Y. Zapisujemy liczbę dwucyfrową w ten sposób, że cyfra ze zbioru X jest cyfrą dziesiątek, a cyfra ze zbioru Y cyfrą jedności.

Oblicz prawdopodobieństwo zdarzenia A polegającego na tym, że otrzymana liczba będzie podzielna przez 6. Zapisz obliczenia.

Zadanie 31. (0–1)

Nauczyciel matematyki po każdym sprawdzianie porównuje wyniki uzyskane przez uczniów dwóch klas: IV A i IV B. Na dwóch diagramach przedstawiono wyniki sprawdzianu ze statystyki. Na osiach poziomych podano oceny, a na pionowych liczbę uczniów, którzy otrzymali daną ocenę.

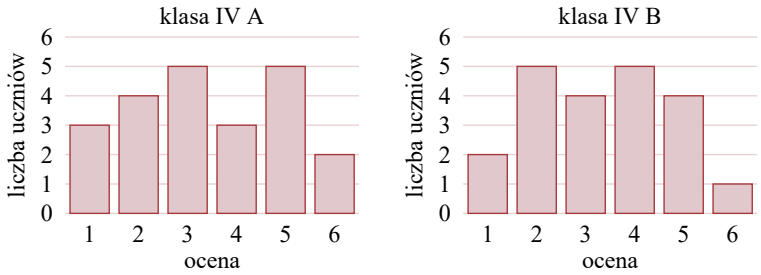

Oceń prawdziwość poniższych stwierdzeń. Wybierz P, jeśli stwierdzenie jest prawdziwe, albo F – jeśli jest fałszywe.

Średnia arytmetyczna ocen w klasie IV A jest równa średniej arytmetycznej ocen w klasie IV B.	P	F
Mediana ocen w klasie IV A jest równa medianie ocen w klasie IV B.	P	F

Zadanie 32. (0–1)

Średnia arytmetyczna trzech liczb a, b, c jest równa 4. Średnia arytmetyczna czterech liczb d, e, f, g jest równa $6{,}5$.

Dokończ zdanie. Wybierz właściwą odpowiedź spośród podanych.

Średnia arytmetyczna siedmiu liczb a, b, c, d, e, f, g jest równa

A. $\frac{45}{7}$ **B.** $\frac{31}{7}$

C. $\frac{38}{7}$ **D.** $\frac{52}{7}$

Zadanie 33.

W chwili $t = 0$ z poziomu ziemi wyrzucono piłeczkę pionowo do góry. Przyjmijmy, że wysokość h w chwili t jest określona wzorem $h(t) = -4{,}9t^2 + 24{,}5t$. Czas t jest wyrażony w sekundach i zmienia się od 0 do pierwszego uderzenia piłeczki o ziemię. Wysokość jest wyrażona w metrach i liczona względem poziomu ziemi.

Zadanie 33.1. (0–1)

Dokończ zdanie. Wybierz właściwą odpowiedź spośród podanych.

Piłeczka po raz pierwszy uderzy w ziemię w chwili

A. $t = \frac{5}{2}$ s **B.** $t = 4$ s

C. $t = 6$ s **D.** $t = 5$ s

Zadanie 33.2. (0–1)

Dokończ zdanie. Wybierz właściwą odpowiedź spośród podanych.

Piłeczka osiągnęła największą wysokość w chwili

A. $t = \frac{5}{2}$ s **B.** $t = 4$ s

C. $t = 6$ s **D.** $t = 5$ s

Dodatkowe miejsce na obliczenia

Dodatkowe miejsce na obliczenia

Dodatkowe miejsce na obliczenia

Karta odpowiedzi

Zadanie	Odpowiedź
1	A ☐ B ☐ C ☐ D ☐
2	A ☐ B ☐ C ☐ D ☐
3	A ☐ B ☐ C ☐ D ☐
4	A ☐ B ☐ C ☐ D ☐
5	Zdanie 1: P ☐ F ☐ Zdanie 2: P ☐ F ☐
6	A ☐ B ☐ C ☐ D ☐
8	A ☐ B ☐ C ☐ D ☐
9	A ☐ B ☐ C ☐ D ☐
13.1	Zdanie 1: P ☐ F ☐ Zdanie 2: P ☐ F ☐
13.2	A ☐ B ☐ C ☐ D ☐
16	A ☐ B ☐ C ☐ D ☐
18	A ☐ B ☐ C ☐ D ☐
19	A ☐ B ☐ C ☐ D ☐
20	A ☐ B ☐ C ☐ D ☐
23	A ☐ B ☐ C ☐ D ☐
24.1	A ☐ B ☐ C ☐ D ☐
24.2	A ☐ B ☐ C ☐ D ☐
25	Zdanie 1: P ☐ F ☐ Zdanie 2: P ☐ F ☐
26	A ☐ B ☐ C ☐ D ☐
28	A ☐ B ☐ C ☐ D ☐
29	A ☐ B ☐ C ☐ D ☐
31	Zdanie 1: P ☐ F ☐ Zdanie 2: P ☐ F ☐
32	A ☐ B ☐ C ☐ D ☐
33.1	A ☐ B ☐ C ☐ D ☐
33.2	A ☐ B ☐ C ☐ D ☐